Förslag på prov för MG 2

Namn _____

1. Skriv in tonnamn och oktav



2. a) Vilka intervall är det här?



2. b) Skriv in intervallen



3. Vilka tonarter kan det här vara? Skriv in både dur- och moll-tonarterna.



4. Skriv in följande skalor med tillfälliga förtecken

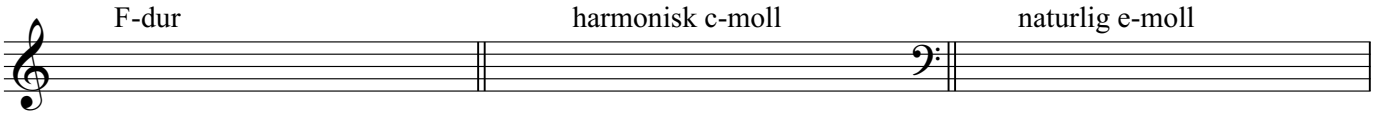

5. Vilka skalor är det här?



6. Skriv in följande ackord

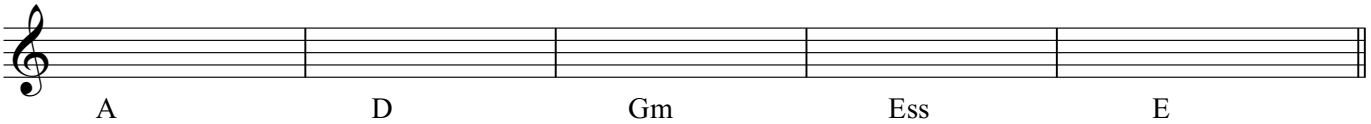

7. Vilka ackord är det är?

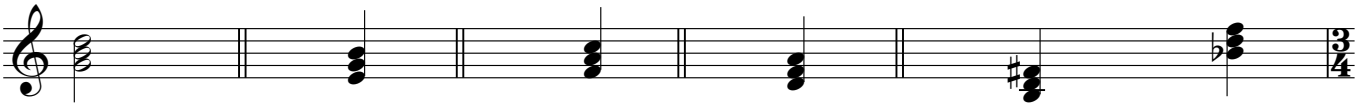

8. Dra taktstreck på rätt ställe



9. Vad betyder de här orden?

largo =

coda =

crescendo =

presto =